1-часть. Каждое задание оценивается 0,9 баллом

1. С помощью какого прибора измеряется скорость ветра?
A) Флюгер B) Анемометр C) Барометр D) Термометр

2. Обозначьте озеро, образованное льдом, по происхождению.
A) Большой Медвежье B) Ньяса C) Байкал D) Танганьика

3. Сколько километров толщины литосфера имеет на дне океана и на суше?
A) 60-70 и 100-150 B) 20-50 и 200-300
C) 35-40 и 70-80 D) 50-60 и 100-200

4. Как называется прирост населения за счет превышения числа умерших над числом родившихся?
A) механический прирост населения C) естественный прирост населения
B) депопуляция D) реурбанизация

5. Какой климатический пояс образовался на территории между 30° и 40° южной широты Южноамериканского материка?
A) тропический C) субтропический
B) субэкваториальный D) экваториальный

6. Что занимает большие территории в Северной Атлантике, недалеко от полуострова Флорида, Фолклендских островов?
A) подводный горный хребет C) портовые города
B) материковая отмель D) океанические впадины

7. На какой реке построена Ходжакентская ГЭС?
A) Чирчик D) Амударья
B) Сырдарья
C) Карадарья

8. В каких городах построены заводы по производству азотных удобрений и химических волокон из природного газа?
A) Андижан и Нукус C) Янгийул и Маргилан
B) Бухара и Самарканд D) Фергана и Навои

9. Какой климат характерен для северного склона Кавказских гор?
A) субэкваториальный C) тропический
B) субтропический D) умеренный

10. В каких регионах Африки встречаются магматические и метаморфические породы?
A) в бассейнах рек и впадинах C) в горах и на плато
B) в горах и низменностях D) в впадинах и низменностях

2-часть. Каждое задание оценивается 1,5 баллом

11. В чем причина появления межгорные впадины в горной части Узбекистана?
A) вследствие поднятия горных хребтов
B) извержения вулканов
C) постоянные ветры
D) неровность рельефа

DEPARTAMENT

12. Какие природные зоны должны пройти туристы, чтобы добраться из пункта А в пункт В по маршруту на этой карте-схеме?

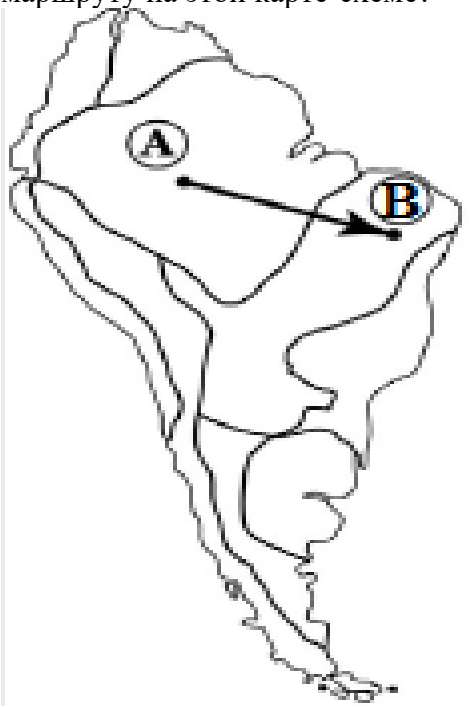

A) из зоны жестколиственных вечнозеленых лесов в зону полупустынь
B) от саванн до зоны влажных экваториальных лесов
C) из зоны влажных экваториальных лесов в зону саванн
D) от саванн до полупустынь и пустынь

13. Какие воздушные массы преобладают в течение всего года в части бассейна реки Конго и на берегах Гвинейского залива?
A) экваториальные B) континентальные C) тропические D) умеренные

14. Какие страны Южной Америки не связаны с бассейнами Атлантического и Тихого океана?
A) Суринам, Перу B) Аргентина, Гайана
C) Боливия, Парагвай D) Венесуэла, Колумбия

15. На сколько метров впадина Кермадек глубже, чем впадина Явы?
A) 2318 м B) 2031 м C) 1706 м D) 1840 м

16. Что из перечисленного не входит в состав “фреоновых” газов, разъедающих озоновый слой?
A) хлор B) фтор C) водород D) углерод

17. В какой период равнинная часть Мирзачульского физико-географического округа находилась под водой?
A) каменный B) юрский C) девонский D) силурский

18. Определите среднесуточную температуру воздуха на основании следующих данных: в 1:00 +8°C; в 4:00 +4°C; в 7:00 +7°C; в 10:00 +15°C; в 13:00 +19°C; в 16:00 +21°C; в 19:00 +13°C; в 22:00 +9°C.
A) +15°C B) +19°C C) +12°C D) +13°C

19. К какой единице ландшафта подходят впадины высохших более мелких озер в дельтах?
A) местность B) урочище C) фация D) провинция

DEPARTAMENT

20. Как называется расположение склонов гор и холмов по отношению к сторонам горизонта, куда попадают солнечные лучи?
A) географическое положение B) высотная поясность
C) экспозиция склона D) секторность

<u>3-часть. Каждое задание оценивается 2,6 баллом</u>

21. Какие природные зоны сформировались на равнинной части Южноамериканского материка? 1. влажные экваториальные леса; 2. прерии; 3. субэкваториальные леса; 4. саванны; 5. хвойные леса; 6. степь; 7. полупустыни и пустыни; 8. лесостепь; 9. смешанные леса.
A) 1, 3, 4, 6, 7, 9 B) 1, 2, 3, 4, 6, 8 C) 2, 4, 5, 7, 8, 9 D) 1, 2, 3, 4, 6, 9

22. В каком городе страны был построен стекольный завод при участии Китайской компании?
A) Джизак B) Ургенч C) Чирчик D) Алмалык

23. Какие горы образовались на каледонской складчатости палеозойской эры?
A) Верхняя Яна, Центральные Кордильеры, Казахский мелкосопочник, горы в Альпийско-Гималайской области
B) Прибайкалье, Тянь-Шань, Урал, Центральная Европа
C) Анды, Южные Аппалачи, Чукотка, Камчатка, Новая Зеландия
D) Алтай, Тянь-Шань, Казахский мелкосопочник, Северная Скандинавия, Северные Аппалачи

24. Определите, с какой глубины извергается эта вода, если температура воды, извергающейся из одного из гейзеров Исландии, составляет +93°C.
A) 2818,2 м B) 2182,8 м C) 2281,8 м D) 2188,2 м

25. В какой период развития Земли сформировались псилофиты?
A) пермский B) кембрийский C) юрский D) силурский

26. В какой природной зоне находится гора, где сформировались следующие высотные пояси? 1-лесостепи и степи; 2-смешанные и широколиственные леса; 3 – субальпийские луга; 4 – альпийские луга; 5 – горная тундра; 6-зона снега и льда.

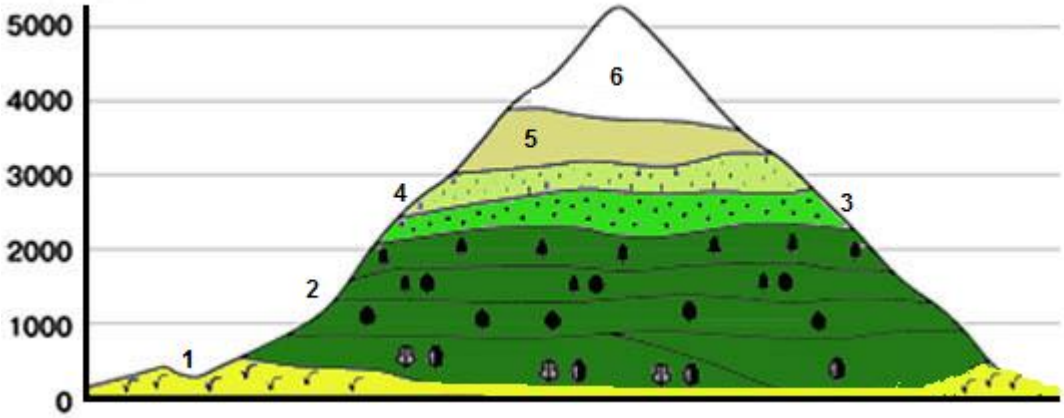

A) в зоне тундры и лесотундры B) в лесостепной и степной зоне
C) в зоне смешанных и широколиственных лесов D) в зоне субэкваториальных лесов

27. Какое из следующих явлений не связано с притяжением Луны к Земле?
A) повышение уровня Мирового океана в прибрежных районах
B) приливные явления
C) замедление вращения Земли вокруг своей оси

D) величина угловой скорости вращения Земли уменьшается от экватора к полюсам

28. Какой из объектов на рисунке имеет самое высокое давление воздуха?

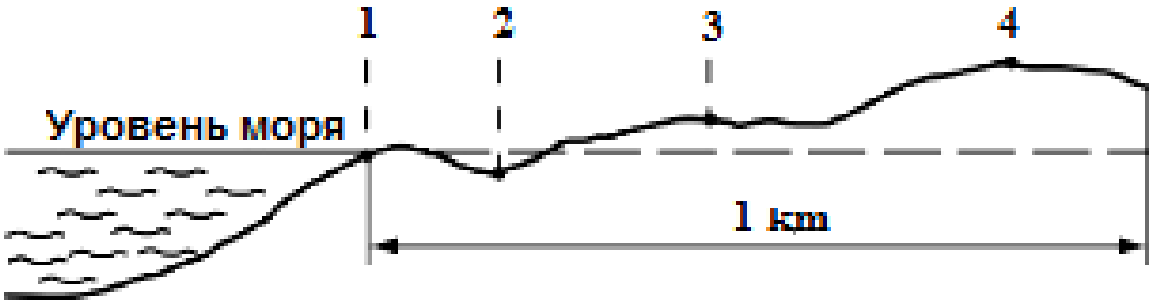

A) 1 B) 3 C) 4 D) 2

29. Если давление воздуха на уровне моря составляет 757 мм Hg, а температура составляет + 24°C, определите температуру и давление воздуха на высоте 5895 м.

A) –9,5°C, 158,5 мм Hg B) –8,54°C, 127,5 мм Hg
C) –11,37°C, 167,5 мм Hg D) –10,5°C, 176,5 мм Hg

30. На территории какой страны расположен хребет Сихотэ-Алинь?

A)

B) 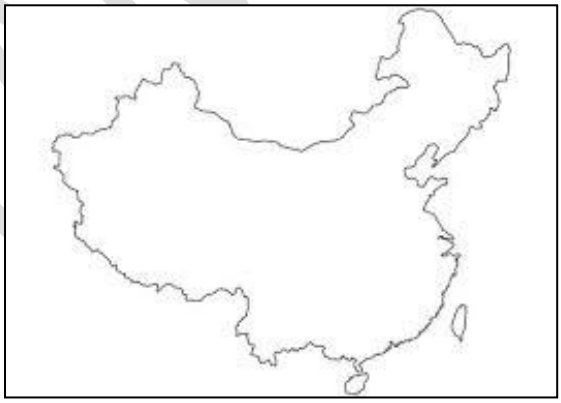

C) 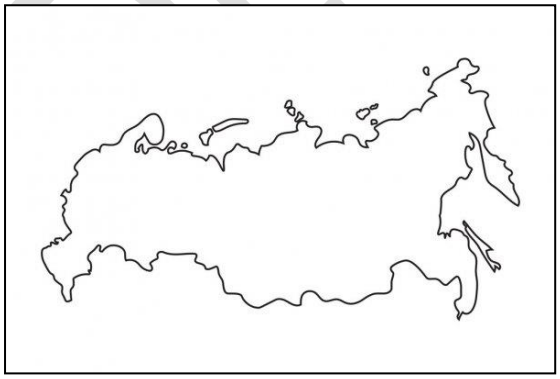

D)

DEPARTAMENT